1 正の数と負の数

レッスン 1001 正の数と負の数

ポイント

- **正の数** ： 0より大きい数
  正の符号 ＋ をつける
- **負の数** ： 0より小さい数
  負の符号 − をつける

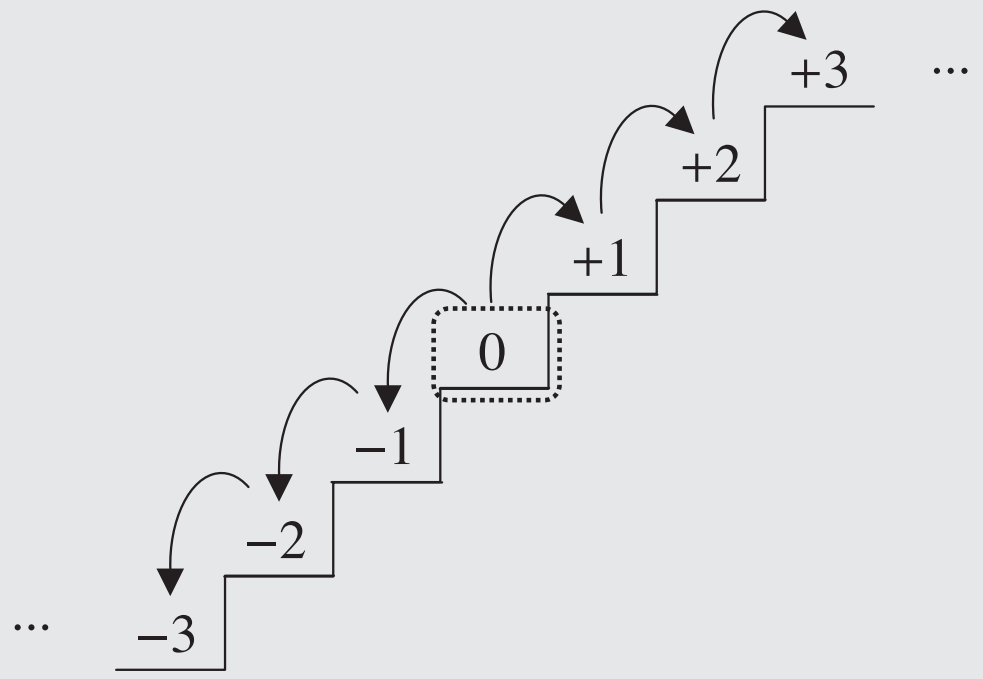

問題

次の数やことがらを，符号を使って表しなさい。

(1) 0より6大きい数

(2) 0℃より3℃低い温度

解答

(1) 0より大きい数なので，正の符号 ＋ をつける。
　＋6 …（答）

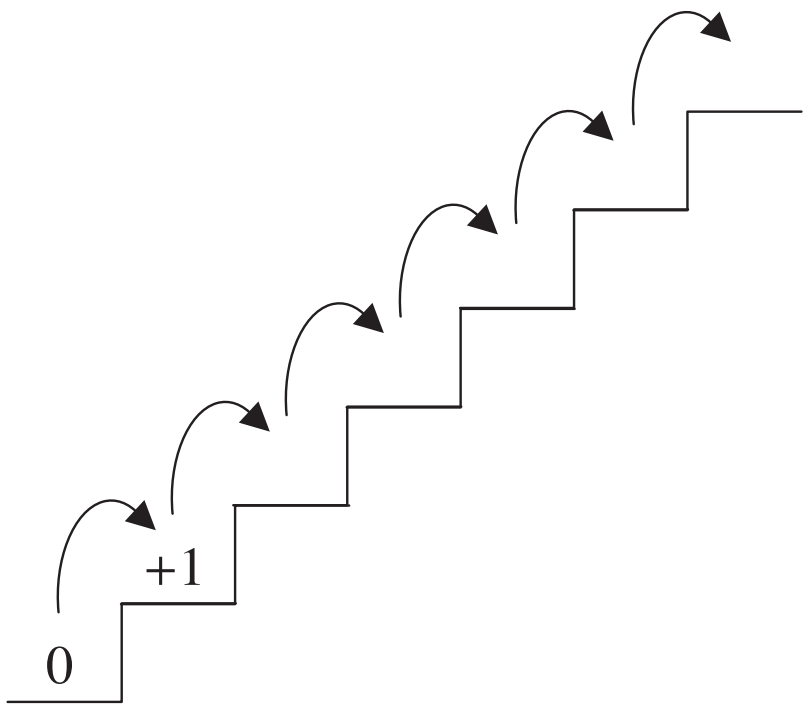

(2) 0℃より低い温度なので，負の符号 − をつける。

−3℃ …(答)

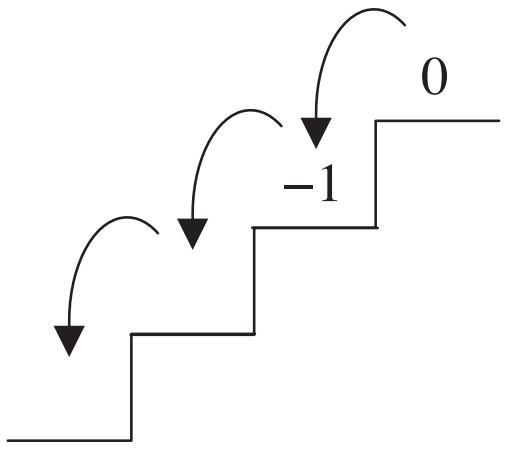

確認テスト　正の数と負の数

次の数やことがらを，符号を使って表しなさい。

(1) 0より4大きい数

(2) 0より6小さい数

(3) 0℃より23℃高い温度

(4) 0℃より8℃低い温度

レッスン1002 数の種類の見わけ

ポイント

- 正の数　：　0より大きい数
- 負の数　：　0より小さい数
- 自然数（しぜんすう）　：　正の整数（+1，+2，・・・）

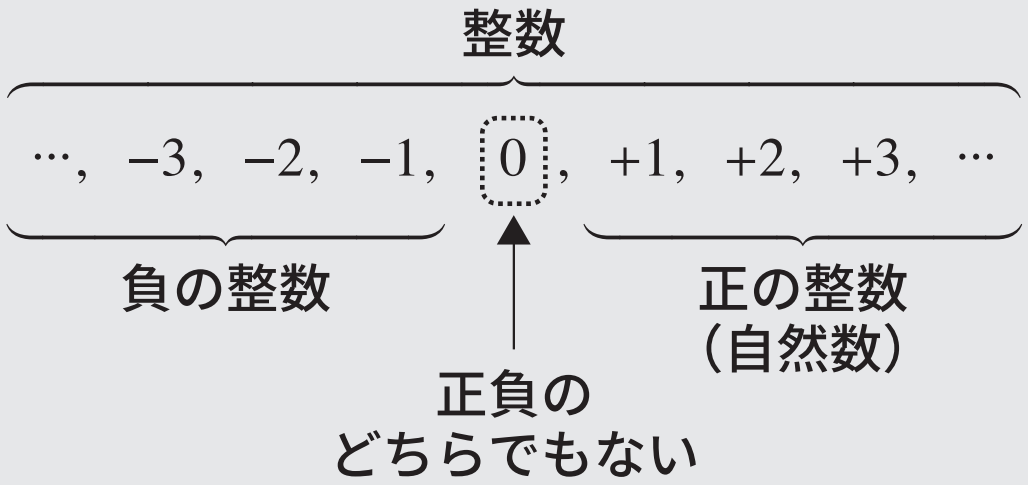

問題

次の数の中で，(1)〜(4)にあてはまるものを**すべて**答えなさい。

$$-1.5,\ -10,\ 0,\ -4,\ +\frac{1}{2},\ 7$$

(1) 正の数

(2) 負の数

(3) 自然数

(4) 正の数でも負の数でもない数

解答

(1) $\boldsymbol{+\frac{1}{2},\ 7}$ …(答)

(2) $\boldsymbol{-1.5,\ -10,\ -4}$ …(答)

(3) $\boldsymbol{7}$ …(答)

(4) $\boldsymbol{0}$ …(答)

確認テスト　数の種類の見わけ

次のそれぞれにあてはまる数を以下から**すべて**選びなさい。

$$-0.35,\ +\frac{3}{7},\ +7,\ 83,\ 0,\ -5$$

(1) 正の数

(2) 負の数

(3) 自然数

(4) 正の数でも負の数でもない数